**79** Dans tous les cas suivants, sauf un, les figures ont été obtenues par symétrie centrale. Retrouver l'intru. Dans les autres cas, reproduire ou télécharger les figures et trouver, à l'aide des instruments de géométrie, le centre de la symétrie.

**a.**



**b.**

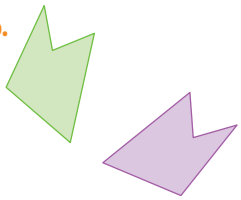

**c.**

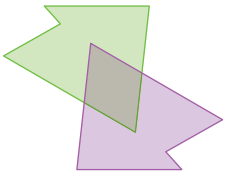

**d.**

